Θέματα από τον 1ο διαγωνισμό Λογικής LOGIGAME του 2014-μέρος2

1η Ερώτηση: Ποιος αριθμός λείπει από την σειρά;

1, 1, 1, 3, 5, 9, __, 31, 57



Α) 11
Β) 13
Γ) 15
Δ) 17

2η Ερώτηση :

Ποιο σχήμα συμπληρώνει την παρακάτω σειρά;

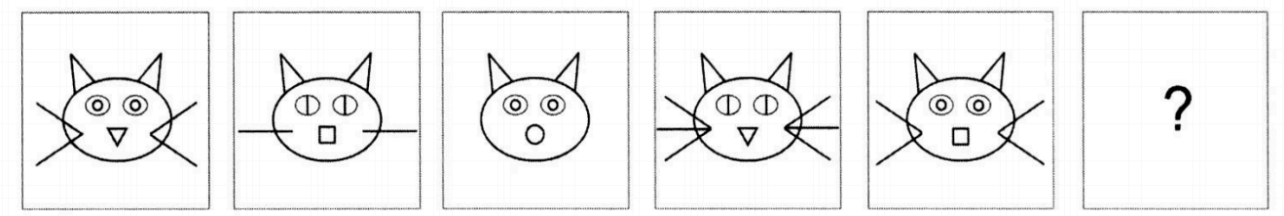

Α) Β) Γ) Δ)

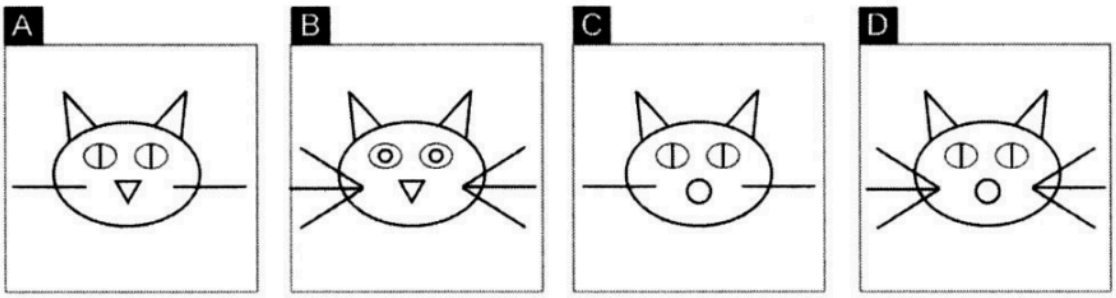

3η Ερώτηση :

Σε μια τάξη 23 μαθητών, βρέθηκαν συνολικά 72 στυλό πάνω στα θρανία τους. Κάποια παιδιά έχουν από 3 στύλο, κάποια 4 και κάποια 5 στυλό. Υπάρχει τουλάχιστον 1 παιδί που έχει 5 στυλό. Πόσα από τα παιδιά έχουν 4 στυλό πάνω στο θρανίο τους;

Α) 1
Β) 2
Γ) 3
Δ) 4

Η συνέχεια την επόμενη βδομάδα. Καλή επιτυχία!!!!

Link LOGIGAME