Μια ορθή γωνία στρέφεται.

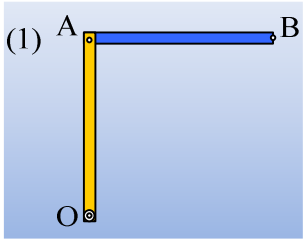

Διαθέτουμε δύο όμοιες ομογενείς ράβδους με μήκος ℓ=1m και μάζα M=3kg η καθεμιά. Τις καρφώνουμε ενώνοντας το ένα τους άκρο A σχηματίζοντας γωνία 90°, δημιουργώντας ένα στερεό Σ, το οποίο μπορεί να στρέφεται γύρω από σταθερό οριζόντιο άξονα που περνά από το άκρο O της ράβδου OA, όπως στο σχήμα, χωρίς τριβές. Φέρνουμε το στερεό Σ σε τέτοια θέση, ώστε η ράβδος AB να είναι οριζόντια και το αφήνουμε να κινηθεί.

i) Να βρεθεί η ροπή αδράνειας του στερεού Σ καθώς και η αρχική επιτάχυνση του άκρου B της ράβδου AB.

ii) Για την θέση (2) που η ράβδος AB γίνεται ξανά οριζόντια, να υπολογιστούν:

α) η ταχύτητα του άκρου B και ο ρυθμός μεταβολής του μέτρου της ταχύτητάς του.

β) η στροφορμή του στερεού Σ και η στροφορμή κάθε ράβδου, ως προς (κατά) τον άξονα περιστροφής.

γ) Ο ρυθμός μεταβολής της στροφορμής ως προς (κατά) τον άξονα περιστροφής του στερεού Σ και οι αντίστοιχοι ρυθμοί για κάθε ράβδο.

δ) Η ροπή που ασκείται στην ράβδο AB από την ράβδο OA ως προς τον άξονα περιστροφής στο O.

Απάντηση:

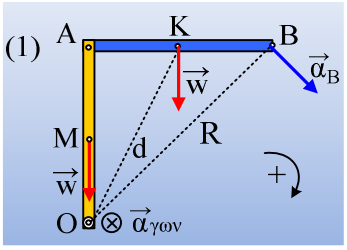

i) Η ροπή αδράνειας του στερεού Σ ως προς τον άξονα περιστροφής που περνά από το O είναι:

$$I_O = I_{OA} + I_{AB} = \left(\frac{1}{12}M\ell^2 + M\left(\frac{\ell}{2}\right)^2\right) + \left(\frac{1}{12}M\ell^2 + M(OK)^2\right)$$

Αλλά $(OK)^2 = (OA)^2 + (AK)^2 = \ell^2 + \frac{\ell^2}{4} = \frac{5}{4}\ell^2$ οπότε:

$$I_O = \left(\frac{1}{3}M\ell^2\right) + \left(\frac{16}{12}M\ell^2\right) = \frac{1}{3}3\cdot 1^2 kg\cdot m^2 + \frac{4}{3}3\cdot 1^2 kg\cdot m^2 = (1+4) = 5kg\cdot m^2$$

Όπου $I_{OA} = 1kg\cdot m^2$ και $I_{AB} = 4kg\cdot m^2$ οι αντίστοιχες ροπές αδράνειας των δύο ράβδων.

Με εφαρμογή του 2ου νόμου του Νεύτωνα για την στροφική κίνηση του στερεού παίρνουμε:

$$\Sigma\tau_O = I_O\cdot\alpha_{\gamma\omega\nu} \rightarrow w\cdot\frac{\ell}{2} = I_O\cdot a_{\gamma\omega\nu} \rightarrow a_{\gamma\omega\nu} = \frac{Mg\ell}{2I_O} = \frac{3\cdot 10\cdot 1}{2\cdot 5}rad/s^2 = 3rad/s^2.$$

Αλλά τότε το σημείο B έχει επιτρόχια επιτάχυνση:

$$\alpha_B = a_{\varepsilon\pi} = \frac{d\upsilon}{dt} = \frac{d(\omega R)}{dt} = \frac{d\omega}{dt}R = a_{\gamma\omega\nu}R = a_{\gamma\omega\nu}\ell\sqrt{2} = 3\cdot 1\sqrt{2}m/s^2 = 3\sqrt{2}m/s^2$$

κάθετη στην ακτίνα περιστροφής R=(OB). Το σημείο εξάλλου B δεν έχει κεντρομόλο επιτάχυνση, αφού η γωνιακή του ταχύτητα είναι μηδενική.

ii) Η μηχανική ενέργεια κατά την κίνηση του στερεού Σ από την θέση (1) στην θέση (2) παραμένει σταθερή:

$$K_{αρχ}+U_{αρχ}=K_{τελ}+U_{τελ} \rightarrow$$

$$M_2 g 2\ell + M_1 g\frac{3\ell}{2} = \frac{1}{2}I_O\omega^2 + M_1 g\frac{\ell}{2}$$

$$3Mg\ell = \frac{1}{2}I_O\omega^2 \rightarrow$$

$$\omega = \sqrt{\frac{6Mg\ell}{I_O}} = \sqrt{\frac{6\cdot 3\cdot 10\cdot 1}{5}}rad/s = 6rad/s$$

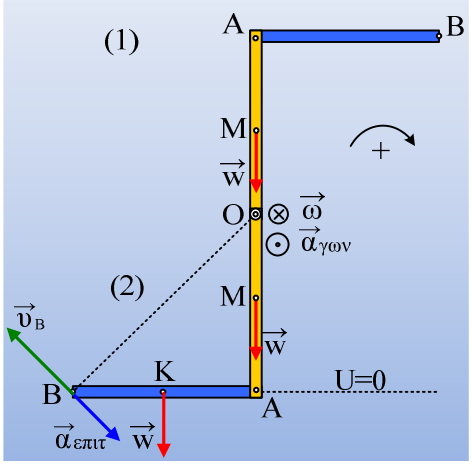

α) Έτσι η ταχύτητα του άκρου B είναι $\upsilon_B=\omega\cdot R=6\sqrt{2}m/s$ κάθετη στην OB.

Εξάλλου στη θέση αυτή ο 2ου νόμος του Νεύτωνα για την στροφική κίνηση του στερεού δίνει:

$$\Sigma\tau_O=I_O\cdot\alpha_{\gamma\omega\nu} \rightarrow -w\cdot\frac{\ell}{2} = I_O\cdot a_{\gamma\omega\nu} \rightarrow a_{\gamma\omega\nu} = -\frac{Mg\ell}{2I_O} = -\frac{3\cdot 10\cdot 1}{2\cdot 5}rad/s^2 = -3rad/s^2.$$

Αλλά τότε το σημείο B έχει επιτρόχια επιτάχυνση μέτρου:

$$a_{\varepsilon\pi} = a_{\gamma\omega\nu}R = a_{\gamma\omega\nu}\ell\sqrt{2} = 3\cdot 1\sqrt{2}m/s^2 = 3\sqrt{2}m/s^2$$

Αντίθετης κατεύθυνσης από την ταχύτητα, πράγμα που σημαίνει ότι το μέτρο της ταχύτητας του άκρου B μειώνεται.

β) Για το στερεό Σ: $L_\Sigma=I_O\cdot\omega=5\cdot 6\ kg\cdot m^2/s=30\ kg\cdot m^2/s$ με διεύθυνση του άξονα και φορά προς τα μέσα.

Για τη ράβδο OA: $L_{OA}=I_{OA}\cdot\omega=1\cdot 6\ kg\cdot m^2/s=6\ kg\cdot m^2/s$ με ίδια κατεύθυνση.

Για τη ράβδο AB: $L_{AB}=I_{AB}\cdot\omega=4\cdot 6\ kg\cdot m^2/s=24\ kg\cdot m^2/s$ με ίδια κατεύθυνση.

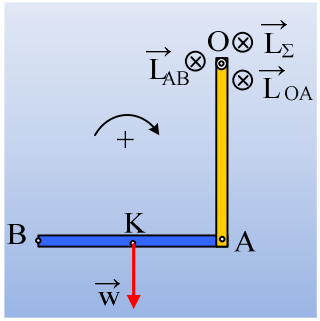

γ) Για τους ρυθμούς μεταβολής των στροφορμών έχουμε:

Για το στερεό Σ: $\frac{dL}{dt} = \Sigma\tau = -Mg\frac{\ell}{2} = -3\cdot 10\cdot\frac{1}{2}kg\cdot m^2/s^2 = -15kg\cdot m^2/s^2$ ή

$$\frac{dL}{dt} = \Sigma\tau = I_O a_{\gamma\omega\nu} = 5\cdot(-3)kg\cdot m^2/s^2 = -15kg\cdot m^2/s^2$$

Με διεύθυνση του άξονα και φορά προς τα έξω, αντίθετης δηλαδή φοράς από το διάνυσμα της αντίστοιχης στροφορμής, η οποία φαίνεται στο παραπάνω σχήμα.

Για τη ράβδο ΟΑ: $\frac{dL_{OA}}{dt} = \Sigma\tau = I_{OA}a_{\gamma\omega\nu} = 1\cdot(-3)kg\cdot m^2/s^2 = -3kg\cdot m^2/s^2$ με ίδια κατεύθυνση.

Για τη ράβδο ΑΒ: $\frac{dL_{AB}}{dt} = \Sigma\tau = I_{AB}a_{\gamma\omega\nu} = 4\cdot(-3)kg\cdot m^2/s^2 = -12kg\cdot m^2/s^2$ ίδιας κατεύθυνσης.

δ) Για τη ράβδο ΑΒ ισχύει:

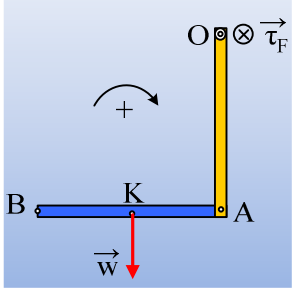

$$\frac{dL_{AB}}{dt} = \Sigma\tau_O = -w\cdot\frac{\ell}{2} + \tau_{(OA)} \rightarrow$$

$$\tau_{(OA)} = \frac{dL_{AB}}{dt} + Mg\cdot\frac{\ell}{2} \rightarrow$$

$$\tau_{(OA)} = \left(-12 + 3\cdot 10\cdot\frac{1}{2}\right)Nm = +3Nm$$

συνεπώς η ράβδος ΑΒ, δέχεται στο άκρο πρόσδεσης Α μια ροπή, το διάνυσμα της οποίας έχει την κατεύθυνση του άξονα και φορά προς τα μέσα.

dmargaris@sch.gr